1. PUZZLE (cat. 31, 32)

Léo a reproduit sur une feuille de papier quadrillé le dessin que voici, puis il l'a découpé le long des lignes marquées et a obtenu les quatre pièces d'un puzzle.

En disposant autrement toutes ces pièces, il parvient alors à former un rectangle.

Dessinez ce rectangle le plus précisément possible ou collez-le sur votre feuille-réponse, en faisant bien apparaître chacune des pièces.

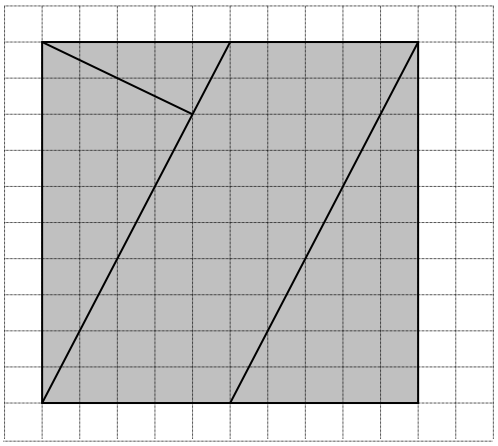

ANALYSE A PRIORI

Tâche mathématique

Reconstituer un rectangle avec quatre pièces qui sont assemblées en carré. Le carré est dessiné sur un quadrillage de 10 × 10, il est partagé par deux droites parallèles joignant chacune un sommet au milieu d'un côté opposé en un parallélogramme et deux triangles rectangles, puis l'un deux est partagé en deux triangles rectangles par sa hauteur perpendiculaire à son hypoténuse.

Analyse de la tâche

- Observer les pièces, se rendre compte que pour faire le puzzle, il faut les découper soit sur le dessin proposé soit sur une reproduction très précise.
- Procéder par essais en déplaçant les pièces, en les glissant, les tournant sans les retourner, en identifiant en particulier les pièces qui permettent d'obtenir des angles droits et celles qui ont des côtés de mêmes longueurs pouvant s'accoler.
- D'une part constater que l'hypoténuse du petit triangle rectangle a même longueur que le petit côté du parallélogramme. En déduire que ces deux pièces s'assemblent bien pour former une partie d'un rectangle.
- D'autre part constater que les deux triangles rectangles assemblés par leurs côtés de même longueur (le côté du carré de départ) forment une autre partie du rectangle et que ces deux parties peuvent être assemblées.
- Reproduire le dessin ci-dessous ou coller le puzzle sur la feuille-réponse.

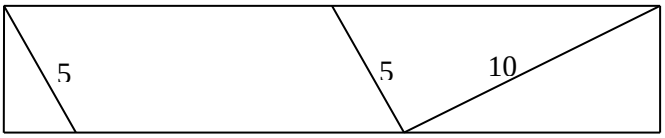

Attribution des points

4 Reproduction du rectangle avec les bonnes dimensions et avec les quatre pièces bien visibles (dessin ou collage corrects et précis)

3 Reproduction imprécise du rectangle avec les quatre pièces (dessin ou collage)
Ou dessin du rectangle avec les mesures correctes mais sans montrer les quatre pièces

2 Agencement de trois des pièces de façon à obtenir un quadrilatère ayant deux angles droits consécutifs ou rectangle reconstitué avec trois pièces (les trois triangles rectangles).

1 Agencement de deux des pièces de façon à obtenir un quadrilatère ayant deux angles droits consécutifs

0 Incompréhension du problème, ...

2. DES CARRÉS DE CARRÉS (cat. 31, 32)

Avec les 25 petites cases carrées de la première grille, on peut former 8 carrés, comme le montre la deuxième grille.

Première grille

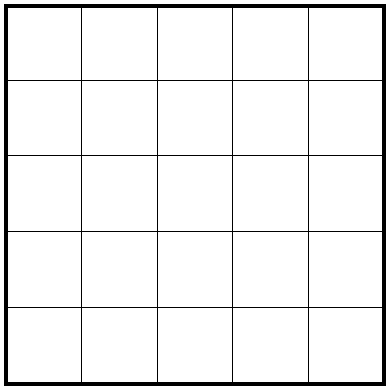

Deuxième grille



Avec les 25 cases de la première grille, comment peut-on former 10 carrés qui recouvrent exactement la grille ?

Et comment peut-on former 13 carrés ?

Dessinez les 10 carrés que vous avez trouvés sur la troisième grille et les 13 carrés sur la quatrième grille.

Vous pouvez colorier les carrés de couleurs différentes pour qu'on les distingue bien.

Troisième grille

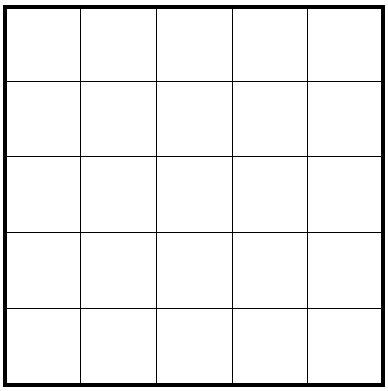

Quatrième grille

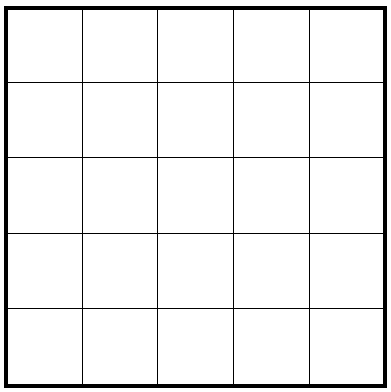

ANALYSE A PRIORI

Taches mathématiques

- Géométrie : grouper des carré unités pour atteindre un nombre de carrés défini (pavages)
- Arithmétique : décomposer 25 en somme d'un nombre défini de carrés

Analyse de la tâche

- Comprendre qu'il s'agit de décomposer la surface totale en utilisant seulement des assemblages de petits carrés ayant eux-mêmes une forme carrée.
- Comprendre que les carrés formés peuvent comporter 1, 4, 9 ou 16 petits carrés.
- Essayer de chercher les combinaisons en partant de la plus grande surface carrée possible : 25 + 0 ; 16 + 9 × 1 ; etc.

Ou faire des essais en dessinant
Exemples de réponses :





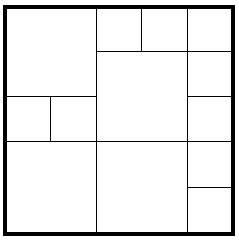

Attribution des points

4 Les deux combinaisons trouvées (10 carrés avec 1 carré de 4 × 4 et 9 carrés de 1 × 1 et 13 carrés avec 4 carrés de 2 × 2 et 9 carrés de 1 × 1), les dispositions pouvant varier, avec des dessins clairs

3 Une combinaison trouvée, sans combinaison erronée

2 Une combinaison trouvée et une autre ne respectant pas les contraintes

1 Essais de combinaisons avec des carrés, mais sans aboutir

0 Incompréhension du problème (par exemple, dessins ne comportant pas que des carrés)

3. CHASSE AU TROIS (cat. 31, 32, 41)

Isidore est en train d'écrire la suite des nombres, à partir de 1 :

1 – 2 – 3 - 4 - 5 - 6 - 7 - 8 - 9 - 10 - 11 - 12 - 13 …

Après avoir écrit le nombre 13, il observe sa suite et constate qu'il vient d'écrire le chiffre 3 pour la deuxième fois.

Il continue ensuite à écrire la suite des nombres … 14 – 15 - 16, ...

À un certain moment, Isidore constate qu'il est en train d'écrire le chiffre 3 pour la vingt-cinquième fois.

Quel nombre est-il en train d'écrire à ce moment ?

Montrez comment vous avez trouvé.

ANALYSE A PRIORI

Tâche mathématique

Dans l'écriture de la suite des nombres naturels à partir de 1, déterminer quel est le nombre dans lequel apparaît le chiffre 3 pour la vingt-cinquième fois.

Analyse de la tâche

- Comprendre qu'on doit compter le nombre d'apparitions du chiffre « 3 » dans la succession des nombres.
- Organiser sa recherche : écrire la suite des nombres en comptant les chiffres « 3 » ou n'écrire que les nombres contenant des chiffres « 3 » ou procéder dizaine par dizaine en examinant chacune d'elles.
- S'arrêter au nombre qui contient le vingt-cinquième « 3 ».

Attribution des points

4 Réponse correcte (131) avec présentation claire de la recherche effectuée

3 Réponse correcte, avec présentation peu claire de la recherche effectuée

2 Réponse « 131 » sans aucune autre explication
Ou erreur de comptage (130 ou 132) avec présentation de la recherche
Ou début organisé de la recherche avec dénombrement d'au moins 20 chiffres « 3 », mais pas aboutie

1 Recherche incomplète et sans organisation
Ou réponse 130 ou 132 sans aucune autre explication

0 Incompréhension du problème.

4. CHERCHEZ LA PETITE BÊTE (cat. 31, 32, 41)

Voici des additions très étranges.

Les nombres ont été remplacés par des petites bêtes : un escargot, une mouche, une coccinelle et un papillon.

Chaque petite bête représente toujours un même nombre.

Trouvez à quel nombre correspond chaque petite bête.

Montrez comment vous avez trouvé votre réponse.

ANALYSE A PRIORI

Tâche mathématique

Trouver quatre nombres qui sont les termes de quatre sommes, chaque somme étant composée de cinq termes

Analyse de la tâche

- Comprendre que chaque petite bête dessinée représente toujours le même nombre.
- Procéder par déduction :
  - Observer les dessins et comprendre qu'il faut commencer par la ligne 3 où figurent seulement 5 mouches et déduire la valeur d'une mouche : 75 / 5 = 15 ou 5 x 15 =75 ;
  - Poursuivre par la ligne 4 et remplacer les 2 mouches par leur valeur (15 x 2 = 30) ; en déduire que 3 coccinelles valent 27 (57 – 30 = 27) et qu'une coccinelle vaut 9 (27 / 3 = 9 ou 3 x 9 = 27) ;
  - Poursuivre par la ligne 2 et remplacer la mouche et la coccinelle par leur valeur ((2 x 9) + 15 = 33) ; en déduire la valeur de deux papillons (73 – 33 = 40) et la valeur d'un seul (40 / 2 = 20 ou 2 x 20 = 40) ;
  - Terminer par la ligne 1 et remplacer la coccinelle, les deux mouches et le papillon par leur valeur (9 + (2 x 15) + 20 = 59) ; en déduire la valeur d'un escargot (80 – 59 = 21).

Ou

- Utiliser une procédure mixte faite de déductions partielles et d'essais, par exemple en commençant par trouver la valeur à donner à une mouche à partir de la troisième égalité…

Attribution des points

4 Réponse correcte (Mouche = 15 ; Coccinelle = 9 ; Escargot = 21 ; Papillon = 20) avec description claire de la démarche (explicitation de l'ordre des phases et calculs ou essais).

3 Réponse correcte avec description peu claire ou avec seulement une vérification.
Ou Procédure correcte et bien expliquée mais réponse incorrecte suite à une erreur de calcul.

2 Réponse correcte sans description de la démarche.
Ou 2 ou 3 valeurs justes avec description peu claire.

1 Valeur de la mouche juste avec indication sur la procédure utilisée.

Ou Début de raisonnement correct (par exemple essais apparents, montrant que la même valeur est attribuée à chaque petite bête au moins dans 2 égalités différentes).

0 Incompréhension du problème.

5. PLANCHE À RECOUVRIR (cat. 31, 32, 41)

Zoé doit recouvrir complètement cette planche de 9 cases carrées :

A	B	C
D	E	F
G	H	I

Pour ce faire, elle dispose :

- d'une pièce recouvrant exactement 3 cases,
- de trois pièces recouvrant chacune exactement 2 cases.

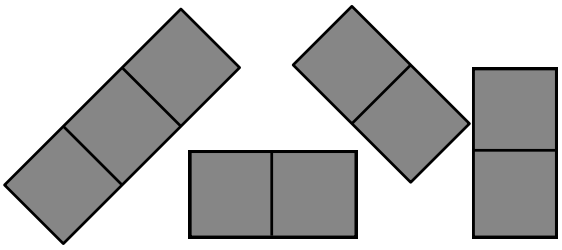

Comment Zoé peut-elle recouvrir complètement sa planche ? Indiquez toutes les possibilités.

ANALYSE A PRIORI

Tâche mathématique

Trouver toutes le manières de recouvrir un carré de 3 x 3 cases par 1 rectangle de 3 cases et 3 rectangles de 2 cases.

Analyse de la tâche

- Entreprendre des essais, puis comprendre qu'il est préférable de commencer par placer la pièce couvrant 3 cases.
- Comprendre qu'on peut disposer les pièces soit horizontalement, soit verticalement, et que la grande pièce ne doit pas recouvrir la case centrale pour éliminer les dispositions où apparaissent des cases isolées.
- Procéder de façon systématique pour trouver toutes les manières possibles d'ajouter les petites pièces.
- En déduire les 12 solutions possibles et les noter au moyen des lettres des cases recouvertes, comme dans le tableau ci-dessous ou par des dessins.

  (Exemple de présentation de la solution au moyen des lettres des cases où, dans la première colonne, on trouve les 3 variantes avec la grande pièce horizontale en haut, dans la deuxième la grande pièce horizontale en bas, ...)

ABC, DE, GH, FI	GHI, AB, DE, CF	ADG, BE, CF, HI	CFI, BE, AD, HG
ABC, EF, HI, DG	GHI, BC, EF, AD	ADG, EH, FI, BC	CFI, EH, DG, BA
ABC, DG, EH, FI	GHI, AD, BE, CF	ADG, BC, EF, HI	CFI, BA, ED, HG

Attribution des points

4 Réponse correcte (12) avec présentation claire des cas possibles

3 Réponse correcte sans présentation des cas possibles

Ou oubli d'un type de solutions avec présentation claire des solutions énumérées ou plus de 12 solutions présentant des répétitions

2 Énumération de 6 à 9 solutions présentées sans démarche systématique

1 Moins de 6 solutions correctes

0 Incompréhension du problème

6. LES TROIS FRÈRES GOURMANDS (cat. 32, 41, 42)

Pierre, Jean et Xavier vont manger ensemble 45 chocolats noirs, 21 chocolats blancs et 5 chocolats pralinés. Voilà comment ils vont faire.

Pierre mangera chaque soir un chocolat noir.

Jean mangera chaque soir un chocolat blanc. S'il n'y en a plus, alors il mangera 3 chocolats noirs.

Xavier mangera chaque soir un chocolat praliné. S'il n'y en a plus, alors il mangera 3 chocolats blancs. S'il n'y aura plus de chocolats blancs, alors il mangera 5 chocolats noirs.

Pendant combien de jours vont-ils pouvoir manger des chocolats tous les trois ?

Expliquez comment vous avez trouvé.

ANALYSE A PRIORI

Tâche mathématique

Trouver le nombre de jours pendant lesquels trois frères vont pouvoir manger des chocolats suivant une répartition particulière.

Analyse de la tâche

- Comprendre que les 5 premiers jours, les nombres de chocolats diminueront de 1 chaque jour. Puis, dès le 6e jour, le nombre de chocolats noirs diminuera de 1 par jour, mais celui des chocolats blancs diminuera de 4 par jour. Enfin, lorsqu'il n'y aura plus de chocolats blancs, les frères mangeront, à eux trois, 9 chocolats noirs par jour.
- Effectuer les opérations correspondantes : alternance de soustraction et de division pour chaque sorte de chocolats.
- La démarche la plus probable et la plus efficace est de faire un inventaire jour après jour, ou par tranches de temps jusqu'à épuisement d'une des sortes de chocolat, en tableau ou du genre :

Jours	1	…	5	6	7	8	9	10	11	12	13
Chocolats noirs	44	…	40	39	38	37	36	27	18	9	0
Chocolats blancs	20	…	16	12	8	4	0	0	0	0	0
Chocolats pralinés	4	…	0	0	0	0	0	0	0	0	0

La réponse attendue est donc 13 jours.

Attribution des points

4 Réponse 13, avec explications sous forme d'un texte et/ou d'un tableau

3 Réponse 13, avec explications peu claires ou tableau difficile à interpréter
Ou réponse 12 ou 14, avec tableau et/ou texte témoignant d'une réflexion par ailleurs correcte

2 Démarche correcte avec l'état du stock jusqu'au 9e jour, suivie d'erreurs dans la suite
Ou réponse 13 sans explications

1 Début de résolution correct, avec l'état du stock jusqu'au 5e jour

0 Incompréhension du problème

6. LES TROIS FRÈRES GOURMANDS (cat. 32, 41, 42) ENONCÉ ERRONÉ

Pierre, Jean et Xavier vont manger ensemble 45 chocolats noirs, 21 chocolats blancs et 5 chocolats pralinés. Voilà comment ils vont faire.

Pierre mangera chaque soir un chocolat noir.

Jean mangera chaque soir un chocolat blanc. S'il n'y en a plus, alors il mangera 3 chocolats noirs.

Xavier mangera chaque soir un chocolat praliné. S'il n'y en a plus, alors il mangera 3 chocolats blancs. S'il n'y aura plus de chocolats blancs, alors il mangera 3 chocolats noirs.

Pendant combien de jours vont-ils pouvoir manger des chocolats tous les trois ?

Expliquez comment vous avez trouvé.

ANALYSE A PRIORI

Tâche mathématique

Trouver le nombre de jours pendant lesquels trois frères vont pouvoir manger des chocolats suivant une répartition particulière.

Analyse de la tâche

- Comprendre que les 5 premiers jours, les nombres de chocolats diminueront de 1 chaque jour. Puis, dès le 6e jour, le nombre de chocolats noirs diminuera de 1 par jour, mais celui des chocolats blancs diminuera de 4 par jour. Enfin, lorsqu'il n'y aura plus de chocolats blancs, les frères mangeront, à eux trois, 7 chocolats noirs par jour.
- Effectuer les opérations correspondantes : alternance de soustraction et de division pour chaque sorte de chocolats.
- La démarche la plus probable et la plus efficace est de faire un inventaire jour après jour, ou par tranches de temps jusqu'à épuisement d'une des sortes de chocolat, en tableau ou du genre :

Jours	1	…	5	6	7	8	9	10	11	12	13	14
Chocolats noirs	44	…	40	39	38	37	36	29	22	15	8	1
Chocolats blancs	20	…	16	12	8	4	0	0	0	0	0	0
Chocolats pralinés	4	…	0	0	0	0	0	0	0	0	0	0

Puisqu'un chocolat noir n'est pas suffisant pour les trois frères, la réponse attendue est donc 14 jours.

Attribution des points

4 Réponse 14, avec explications sous forme d'un texte et/ou d'un tableau

3 Réponse 14, avec explications peu claires ou tableau difficile à interpréter
Ou réponse 13 ou 15, avec tableau et/ou texte témoignant d'une réflexion par ailleurs correcte

2 Démarche correcte avec l'état du stock jusqu'au 9e jour, suivie d'erreurs dans la suite
Ou réponse 14 sans explications

1 Début de résolution correct, avec l'état du stock jusqu'au 5e jour

0 Incompréhension du problème

7. DES CARRÉS EMPILÉS (cat. 41, 42)

Huit carrés de 10 cm de côté ont été collés dans un certain ordre, l'un après l'autre, sur un carton carré de 20 cm de côté. Chaque carré contient 16 lettres choisies parmi A, B, C, D, E, F, G ou H.

Les voici dessinés :



Retrouvez dans quel ordre les carrés ont été collés.

Expliquez votre démarche.

ANALYSE A PRIORI

Tâche mathématique

Déterminer l'ordre d'empilement de 8 carrés de 10 cm de côté, chacun orné d'un motif différent, connaissant la figure finale obtenue, un carrée de 20 cm de côté.

Analyse de la tâche

- Constater que les huit carrés ne sont pas exactement superposés et qu'ils sont disposés bien précisément sur le grand carton : certains dans un angle (A, B, D, F), d'autres avec un seul côté commun avec le grand carré (C, G, H) et l'un d'entre eux au centre (E).
- Différentes démarches peuvent être envisagées pour déterminer l'ordre de leur placement, soit en partant du premier carré posé (méthode montante) soit en partant du dernier posé (méthode descendante). La décomposition de la plaque carrée en carrés plus petits peut aider à la résolution.

  Pour la méthode montante, par essais successifs, trouver le premier carré et procéder de la même manière pour les carrés suivants.

  Pour la méthode descendante, comprendre que le carré E est le premier à enlever puisqu'on le voit entièrement. Ensuite, comprendre que le carré A doit être enlevé puisqu'il apparaît entièrement lorsque E est retiré.

  Ensuite, trouver des relations partielles dans la sériation : G est sur F (sinon la case G serait couverte par F), H est sur D (sinon la case H serait recouverte par D), C sur B, (sinon la case C serait recouverte par B), et aussi : D est sur C, F est sur H ... D'où l'ordre suivant pour empiler les carrés : B-C-D-H-F-G-A-E.
- Une autre démarche envisageable est de découper des carrés isométriques, de les distinguer (lettre, couleur…), de reconstituer le montage et ensuite de le démonter pour découvrir l'ordre de construction.

Attribution des points

4 L'ordre correct (B-C-D-H-F-G-A-E) avec explications

3 L'ordre inverse (E-A-G-F-H-D-C-B) avec explications
ou ordre correct sans explication

2 Ordre inverse sans explication
ou réponse avec une inversion mais avec explications

1 Plus d'une inversion

0 Incompréhension du problème

8. LES CADEAUX (cat. 41, 42)

Le Père Noël prépare des milliers de cadeaux en boîtes de mêmes dimensions : 20 cm, 40 cm et 60 cm.

Ses trois assistants ont des façons différentes de placer les rubans.

Anastasie fait le nœud au milieu de la grande face (méthode A),

Balthazar le fait sur une petite face placée en haut (méthode B),

Célestine choisit une face moyenne pour son nœud (méthode C).

Les trois nœuds sont les mêmes et nécessitent 30 cm de ruban.

Le père Noël n'est pas content, car il estime que deux de ses assistants gaspillent son ruban avec leurs méthodes.

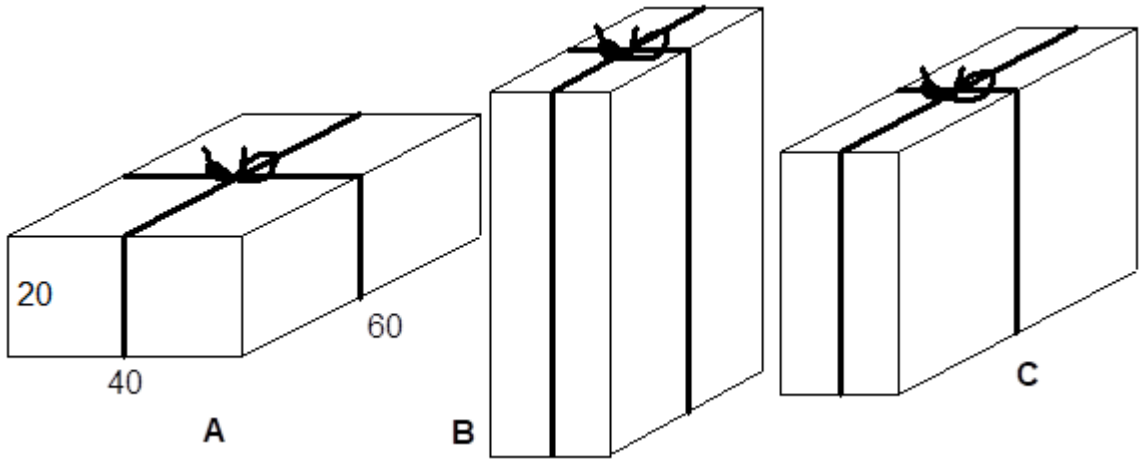

Le père Noël a-t-il raison ?

L'un des assistants utilise-t-il moins de ruban que les autres ?

Expliquez comment vous avez procédé et donnez le détail de vos calculs.

ANALYSE A PRIORI

Résumé

Comparer les longueurs de rubans qui fixent l'emballage d'un cadeau en forme de parallélépipède rectangle de 20 x 40x 60 avec un nœud de 30 cm, selon son emplacement au milieu d'une des trois faces différentes.

Analyse de la tâche.

- Visualiser les trois figures dans l'espace et comprendre, que le ruban suit deux segments perpendiculaires de la face (supérieure) où se situe le nœud, puis « descend » en traversant les quatre faces latérales, dont deux visibles et deux invisibles, puis reproduit la même figure sur la face inférieure invisible.
- Repérer les dimensions des faces et effectuer les additions nécessaires :
  - pour le premier cadeau, la face supérieure est un rectangle de 40 sur 60 cm et la hauteur mesure 20 cm, ce qui fait que la longueur du ruban est $2 \times (40 + 60) + 4 \times 20 + 30 = 310$ cm ;

- pour le deuxième cadeau, il faut imaginer que les longueurs indiquées sur le premier doivent être déplacées (la hauteur est 60 cm et les faces supérieures et inférieures sont des rectangles de 20 su4 40 cm, ce qui conduit à une longueur de ruban de $2 \times (40 + 20) + 4 \times 60 + 30 = 390$ cm
- de même pour le troisième dont la longueur du ruban est $2 \times (20 + 60) + 4 \times 40 + 30 = 340$ cm.

- Répondre : le Père Noël a raison. Anasthasie utilise le moins de ruban, 310 cm, alors que les deux autres en gaspillent 340 et 390 cm

Attribution des points

4 Réponse correcte et complète (Le Père Noël a raison, Anasthasie utilise le moins de ruban, 310 cm, alors que les deux autres en gaspillent 340 et 390 cm (ou toutes ces informations dans un autre ordre) avec explication claire et détails des calculs

3 Réponse correcte comme précédemment, mais avec des explications peu claires ou incomplètes

Ou le calcul des 3 longueurs de ruban avec des explications claires mais sans la conclusion "Le Père Noël a raison, Anasthasie utilise le moins de ruban"

2 Réponse erronée à cause d'une erreur de calcul mais procédure correcte avec des explications claires

Ou réponse correcte comme en 4 mais avec une faute de calcul dans 310, 340 ou 390.

1 Début de raisonnement correct

0 Incompréhension du problème

9. LE CARRÉ DE LÉA (cat. 42)

Léa a trouvé dans le grenier de sa maison une vieille boîte contenant 10 figures géométriques en bois : 4 triangles rectangles non isocèles, 2 triangles rectangles isocèles et 4 trapèzes rectangles.

Avec toutes ces figures Léa a formé ce parallélogramme :

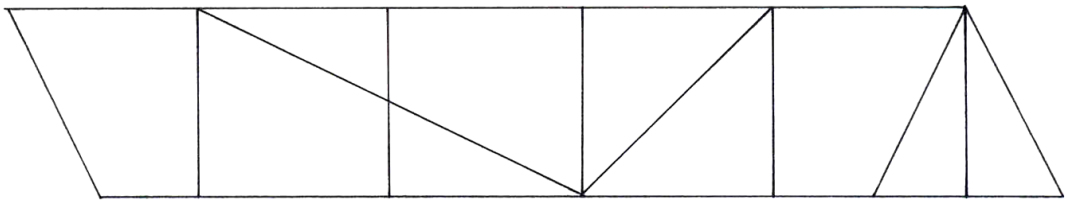

Léa se demande si elle peut former d'autres figures géométriques.

Aidez-là à reconstituer :

- 1 losange en utilisant 8 pièces bien choisies parmi les 10.

- 1 trapèze rectangle en utilisant 8 pièces bien choisies parmi les 10.

- 1 carré en utilisant l'ensemble des 10 pièces.

ANALYSE A PRIORI

Domaines de connaissances

- Géométrie : décomposition et recomposition d'une surface plane en triangles et trapèzes. Comparaisons de longueurs et d'angles. Rotation et symétrie axiale.

Analyse de la tâche

- Comprendre quelles sont les figures à découper.
- Découper les figures et essayer de les accoler en faisant coïncider les côtés égaux.
- Se rendre compte qu'avec 8 figures :
  - on peut obtenir le losange en construisant, par exemple, d'abord un triangle rectangle (avec un trapèze et un triangle rectangle non isocèle) et en procédant ensuite par symétrie ; ou bien, en partant d'un hexagone convexe (obtenu avec les quatre trapèzes rectangles) et en ajoutant ensuite, convenablement, les quatre triangles rectangles non isocèles ;
  - on peut construire deux trapèzes rectangles différents, par exemple, en fixant son attention sur le moyen d'obtenir son côté oblique (par alignement des côtés obliques de deux trapèzes ou des hypoténuses de deux triangles rectangles du même type) et en complétant convenablement.

Ou bien : remarquer qu'en réunissant correctement deux à deux les figures données, on obtient cinq carrés (l'un formé de deux triangles rectangles isocèles, les quatre autres formés d'un triangle rectangle non isocèle et d'un trapèze). Avec quatre de ceux-ci, on forme deux types de puzzles carrés de 8 pièces, le second utilisant les deux triangles rectangles isocèles (cf. *a* et *b*)

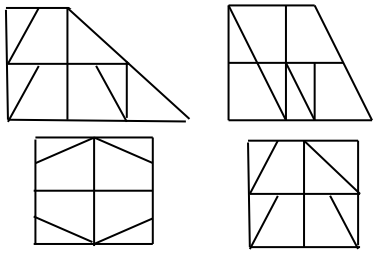

a *b*

- Dans le cas *a*, on peut former le losange en disposant correctement les quatre triangles rectangles non isocèles, comme sur la figure (le quadrilatère obtenu est bien un losange, car il a deux axes de symétrie orthogonaux, et 4 côtés de même longueur).

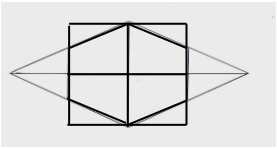

- Dans le cas *b*, on peut former le grand trapèze rectangle en disposant correctement un des deux triangles rectangles isocèles, comme sur la figure (le parallélisme et les angles droits sont assurés par la configuration des 4 carrés initiaux).

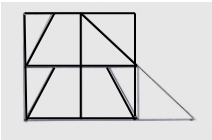

- ou bien obtenir un autre trapèze en assemblant deux trapèzes rectangles avec deux triangles rectangles non isocèles, complétés par un trapèze et les deux triangles rectangles isocèles formant un carré comme sur la figure.

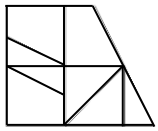

- Se rendre compte qu'avec les 10 figures, on peut obtenir le grand carré en disposant en « position centrale » un petit carré formé des deux triangles rectangles isocèles et en le complétant par les quatre trapèzes rectangles « en tournant » autour du carré central et en terminant avec les quatre triangles rectangles restants, comme sur la figure.

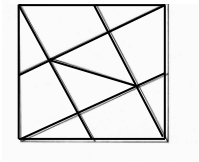

Attribution des points

4 Réponse complète, avec les figures recomposées avec précision (dessins ou collages) avec au moins un des deux trapèzes

3 Deux figures bien recomposées

2 Une figure correctement recomposée

1 Construction avec précision d'au moins une des figures demandées (losange, trapèze rectangle, carré), en utilisant un nombre de pièces différent de la réponse attendue, mais supérieur à 2

0 Incompréhension du problème

10. LE RELAIS DE TRANSALPIE (cat. 42)

En Transalpie, chaque année a lieu une course de relais de 99 km.

Chaque équipe est composée d'au moins deux coureurs.

Dans chaque équipe, un coureur parcourt un nombre entier de kilomètres avant de passer le témoin au suivant.

Le coureur qui reçoit le témoin doit courir exactement 1 km de plus que celui qui l'a précédé.

On peut constituer des équipes, avec un nombre différent de coureurs. Les 99 km du parcours sont répartis selon le nombre de coureurs de l'équipe.

Par exemple on peut former une équipe de trois coureurs : le premier parcourt 32 km, le deuxième 33 et le troisième 34, ce qui donne bien 32 + 33 + 34 = 99.

Combien peut-il y avoir de coureurs dans une équipe ?

Trouvez toutes les possibilités et indiquez les distances parcourues par chacun des coureurs de chaque équipe possible.

ANALYSE A PRIORI

Domaine de connaissances

- Arithmétique : opérations, décomposition d'un nombre en somme de nombres naturels consécutifs

Analyse de la tâche

- Transcrire la situation au niveau mathématique : il s'agit de trouver des décompositions de 99 en sommes de nombres naturels consécutifs et de se demander pour quels nombres de termes elles existent.
- La solution en deux termes, 49 + 50 = 99, est possible et facile à trouver, par exemple à partir de 50 (moitié de 100), la solution en trois termes, 32 + 33 + 34 est donnée,
  pour quatre termes, on peut travailler par approximations successives ou en partant directement de nombres proches de 25 (quart de 100) : 23 + 24 + 25 + 26 = 98 est trop petit, 24 + 25 + 26 + 27 = 102 est trop grand et il faut conclure qu'il ne peut pas y avoir d'équipes de quatre coureurs d'équipes, ,
  pour cinq termes, il n'y a pas non plus de solution ; on trouve en revanche une solution en six termes, en neuf termes et en onze termes. Au total, il y a 5 décompositions de 99 en sommes de nombres naturels consécutifs et donc **5 possibilités pour la formation des équipes :**
  2 coureurs : 49 + 50 = 99 **6 coureurs : 14 + 15 + 16 + 17 + 18 + 19 = 99**
  3 coureurs : 32 + 33 + 34 = 99 **9 coureurs : 7 + 8 + 9 + 10 + 11 + 12 + 13 + 14 + 15 = 99**
  11 coureurs : 5 + 6 + 7 + 8 + 9 + 10 + 11 + 12 + 13 + 14 = 99
- De nombreuses autres procédures permettent de trouver les cinq décompositions, mais font appel à une maîtrise plus élevée des propriétés des opérations. Par exemple : partir des sommes des premiers nombres naturels 1 + 2 = 3 ; 1 + 2 + 3 = 6 ; 1 + 2 + 3 + 4 = 10, etc, les soustraire de 99 et voir si la différence est un multiple de 2, de 3, de 4, etc ; ou constater que tous les nombres impairs sont la somme de deux nombres consécutifs, que les multiples de 3, 5, 7, … sont la somme respectivement de 3, 5, 7, … nombres consécutifs, etc.

Attribution des points

4 Les 5 compositions d'équipes différentes (ou 4 sans mentionner celle de l'énoncé) avec les distances parcourues par chaque coureur et aucune composition incorrecte

3 4 compositions d'équipes différentes (ou 3 sans mentionner celle de l'énoncé) avec les distances parcourues par chaque coureur et aucune composition incorrecte

2 3 compositions d'équipes différentes (ou 2 sans mentionner celle de l'énoncé) avec les distances parcourues par chaque coureur et aucune composition incorrecte

	Ou les 5 compositions d'équipes différentes mais avec au maximum deux autres incorrectes
1	1 ou 2 compositions d'équipes différentes (autres que celle de l'énoncé) avec les distances parcourues par chaque coureur et aucune composition incorrecte
	Ou 3 ou 4 compositions d'équipes différentes mais avec au maximum trois autres incorrectes
0	Incompréhension du problème.

11. UNE ANNÉE PARTICULIÈRE (cat. 42)

2021

En 2021 les personnes nées en 19**47** fêtent leurs **74** ans : elles peuvent écrire leur âge en inversant les deux derniers chiffres de leur année de naissance.

En 2021 ce phénomène se produit aussi pour des personnes nées en d'autres années.

Indiquez quel âge ont toutes ces personnes en 2021.

Expliquez comment vous avez trouvé.

ANALYSE A PRIORI

Tâche mathématique

Trouver tous les âges des personnes dont les deux derniers chiffres de l'année de naissance forment, dans l'ordre inverse, l'âge qu'elles ont en 2021 Avec exemple d'une personne de 74 ans en 2021 née en 1947

Analyse de la tâche

- Procéder par essais plus ou moins organisés en faisant une hypothèse sur l'année de naissance, puis calculer l'âge correspondant en 2021 et valider ou non la réponse en contrôlant si le nombre donnant l'âge calculé correspond au nombre obtenu en inversant les deux derniers chiffres de l'année de naissance.

Ou : Procéder de même en faisant une hypothèse sur l'âge en 2021 et en calculant les années de naissances correspondantes.

Ou : Remarquer, après quelques essais, que la somme des chiffres des âges qui conviennent est 11. Lister alors tous les nombres de deux chiffres dont la somme des chiffres est 11. Vérifier la cohérence entre âges et années ainsi déterminés.

Ou : Remarquer que le chiffre des dizaines (ou celui des unités) du nombre désignant l'âge est nécessairement le complément à 11du chiffre des dizaines (ou respectivement de celui des unités) du nombre indiquant l'année de naissance. (Car la somme de l'âge et de l'année de naissance, 2021, se termine par 0). En déduire, qu'à cause de la condition sur l'inversion des chiffres, ce complément est le chiffre des dizaines (respectivement des unités) correspondant. Lister, alors tous les nombres de deux chiffres dont la somme des chiffres est 11pour déterminer tous les âges qui conviennent.

Attribution des points

4 Réponses correctes (29,38,47,56,65,74,83,92), avec explication claire

3 Réponses correctes et complètes sans explications

Ou réponse correcte avec un oubli (différent de 74)

2 Réponse incomplète (de 2 à 4 oublis), mais qui montre une bonne compréhension d'un problème et témoigne de la mise en place d'une stratégie pour essayer de lister les réponses possibles

1 Début de recherche, une année de naissance au moins a été correctement déterminée (différente de 74)

0 Incompréhension du problème.

12. LE RÉSEAU HEXAGONAL DE ROSALIE (cat. 42)

Dans ce réseau hexagonal, on se déplace d'une alvéole à une alvéole voisine (deux alvéoles sont voisines si elles ont un côté commun).

Rosalie part de l'alvéole du centre (1) et rejoint une alvéole de l'extérieur (3) en passant par deux autres alvéoles (2).

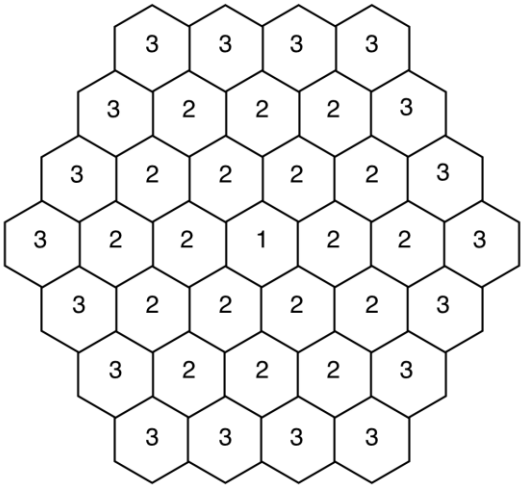

En se déplaçant de cette manière, Rosalie doit donc faire toujours quatre étapes : 1, 2, 2, 3

Combien de chemins différents Rosalie peut-elle emprunter ?

Expliquez comment vous avez compté ces chemins.

ANALYSE A PRIORI

Domaine des connaissances

Logique et combinatoire : dénombrement

Analyse de la tâche

- Observer la structure de la grille : une alvéole centrale (1), et trois « ceintures » d'hexagones concentriques d'alvéoles 2, 2 et 3
- Observer que les des deux alvéoles 2 d'un chemin ne peuvent pas être sur le même hexagone.
- Compter qu'il y a six choix pour la première alvéole 2 (du premier hexagone)
- Compter qu'il y a pour chacune de ces premières alvéoles 2, trois possibilités de prendre une deuxième alvéole 2 du deuxième hexagone (voir le motif partiel ci-dessous).
- Compter qu'il y a, pour ces dernières alvéoles 2, selon leur position, deux ou trois possibilités d'aboutir à une alvéole 3. (Si l'alvéole 2 est au sommet de l'hexagone, elle est voisine de trois alvéoles 3, si l'alvéole 2 est au milieu d'un des dôtés de l'heagone, elle n'est voisine que de deux alvéoles 3.
- En déduire que le nombre de chemins 1-2-2-3 possibles correspond se calcule par $(6 \times 2 \times 2) + (6 \times 1 \times 3) = 42$

Ou compter qu'il y a 7 chemins 1-2-2-3 dans le motif ci-contre et remarquer qu'il se répète radialement six fois pour donner la grille

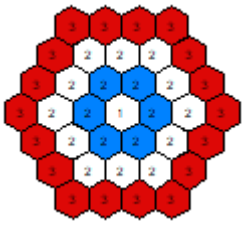

Ou observer que les alvéoles 3 des sommets de l'hexagone du bord ne peuvent être atteintes que par un seul chemin (en ligne droite) alors que les alvéoles 3 qui ne sont pas sur les sommets peuvent être atteintes par trois chemins et que, par conséquent il y a $42 = (6 \times 1) + (12 \times 3)$ chemins possibles.

Attribution des points

4 Réponse correcte (42) et le dénombrement est expliqué ou montré

3 Réponse correcte et les explications sont partiellement données

Ou réponse 36 qui correspond à l'oubli d'un chemin passant par une des alvéoles 2 située sur un sommet du deuxième hexagone (deux chemins pour aller sur une alvéole 3 au lieu des trois possibles)

2 Réponse correcte sans explication

Ou une réponse de 37 à 41

1 De 30 à 35 chemins

Ou absence de réponses mais début d'organisation cohérente du comptage

Ou une réponse supérieure à 42, justifiée par des calculs basés sur une confusion de chemins (par exemple $6 \times 3 \times 3 = 54$ en faisant l'erreur que pour chaque deuxième 2 on a trois possibilités d'arriver à une alvéole 3)

0 Moins de 30 chemins ou incompréhension du problème